Açılış Tuzakları ve Korunma

Tuzağı tanı, tuzağa düşme



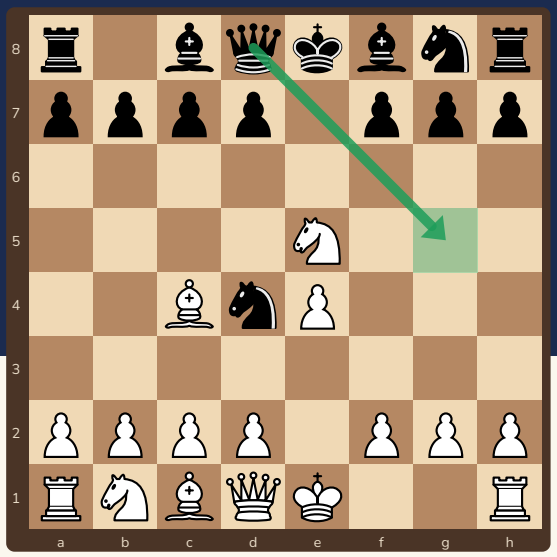

Açılışta tuzak kurmak eğlencelidir ama **asıl amaç tuzağa düşmemektir**. Üç ünlü tuzağı ve her birinde doğru hamleyi öğreneceğiz.

Bu kitapçıkta

s.2 Tuzak nedir? Korunma kuralları
s.3 Blackburne tuzağı
s.4 Albin Karşı Gambiti: Lasker tuzağı
s.5 Englund Gambiti tuzağı
s.6 Alıştırmalar
s.7 Cevaplar
s.8 Tuzak kartı ve sertifika

Sevgili veli,

Bu kitapçık, açılışta ünlü tuzakları hem kurmayı hem de **onlardan korunmayı** öğretir. Tuzaklara güvenmek yerine sağlam hamle oynamak daha iyi sonuç verir; çocuğunuza her tuzakta “rakip hata yapmazsa ne olur?” diye sordurun.

Kitapçık Satranç Velisi için özgün olarak hazırlandı. Bütün konumlar ve cevaplar Stockfish satranç motoruyla kontrol edildi. Ücretsiz basıp paylaşabilirsiniz; satılamaz.

2 Tuzak nedir? Korunma kuralları



Tuzak, rakibin **tatlı görünen bir hataya** düşmesini bekleyen hamledir. Ama ona güvenme: rakip tuzağı bilirse sen zor durumda kalırsın.

1 Bedava taş şüphe uyandırsın

Rakip sana kolayca bir piyon ya da taş veriyorsa önce dur ve sor: **“Bunu alırsam ne olur?”**

2 Şaha çok bak

Birçok tuzak şahtaki açıktan çıkar: **şah çekmeler, açık çizgiler** ve korumasız kareler. Her hamlede şahının yakınına bak.

3 Açılış ilkelerine dön

Merkezi tut, taşlarını geliştir, rok yap. İlkelere uyan oyuncu çoğu tuzaktan korunur.

Bu kitapçıktaki tuzaklar

Tuzak	Kimin tuzağı?	Hata nerede?
Blackburne	Siyahın	Beyaz, e5'i alıp sonra 5.Axf7? ile açgözlülük ediyor.
Albin / Lasker	Siyahın	Beyaz, fili alarak f2 karesini unutuyor.
Englund	Siyahın	Beyaz, kolay görünen 6.Fc3? hamlesini seçiyor.

Her tuzağın yanında **doğru cevabı** da göreceksin. Önce korunmayı, sonra tuzağı öğren.

Ücretsiz paylaşılabilir, satılamaz · CC BY-NC 4.0

3 Blackburne tuzağı



Siyah atı d4'e koydu. Beyaz e5'i alırsa siyahın **vezir hamlesi** var!

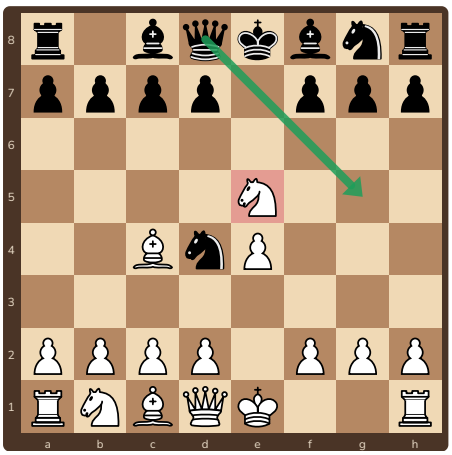

1. 1.e4 e5 2.Af3 Ac6 3.Fc4 Ad4 4.Axe5 (riskli) Siyah **4...Vg5!** oynar: f2 ve g2'ye çifte saldırı.

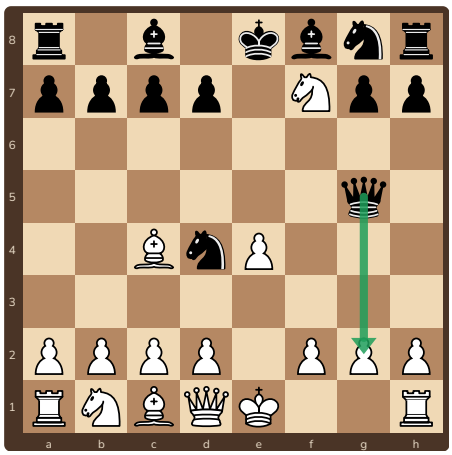

2. 5.Axf7? (açgözlülük) **5...Vxg2**. Vezir h1 kalesine ve şaha bakıyor.

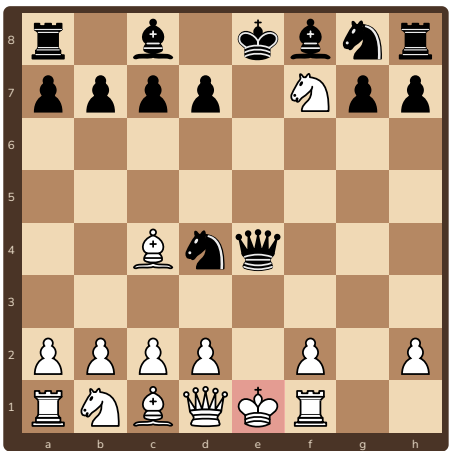

3. 6.Kf1 **Vxe4+** şah çekti. 7.Fe2 zorunlu; sonrası alıştırma 2'de.

Doğru cevap

3...Ad4 gelince beyaz **4.Axd4 exd4 5.O-O** ile rahat oynar (Stockfish bu konumu beyaz lehine buluyor). Tuzağı 4.Axe5'in ve ardından 5.Axf7?'nin cazibesi çalıştırır.

Hatırla

Rakibin bir piyonunu alırken **kendi şahının ve piyonlarının** (f2, g2) güvende olup olmadığını kontrol et.

Ücretsiz paylaşılabilir, satılamaz · CC BY-NC 4.0

4 Albin Karşı Gambiti: Lasker tuzağı



Siyah d4 piyonunu ilerletti. Beyaz filiyle şah çekileni alırsa **küçük bir piyon** büyük iş yapar!



1. 1.d4 d5 2.c4 e5 3.dxe5 d4 4.e3 Fb4+ 5.Fd2? Siyah **5...dxe3!** oynar.



2. 6.Fxb4? (fili almak çekici) **6...exf2+!** Piyon f2'ye şahla gelir.



3. Beyaz **7.Şe2** zorunlu. Sonrası alıştırma 4'te.

Doğru cevap

5...dxe3 geldiğinde beyaz **6.fxe3** ile piyonu geri alır ve dengeyi korur (Stockfish: yaklaşık eşit). 6.Fxb4? ise kaybettirir.

Hatırla

Tuzağın anahtarı **f2 karesi**. Şahın önündeki piyon çekilirse f2'ye gelen piyon çifte iş görür: şah çeker ve vezire yükselmekle tehdit eder.

Ücretsiz paylaşılabilir, satılamaz · CC BY-NC 4.0

5 Englund Gambiti tuzağı



Siyah bir piyon feda etti ve vezirini ileri sürdü. Beyaz **kolay görünen hamleyi** oynarsa zor durumda kalır.



1. 1.d4 e5 2.dxe5 Ac6 3.Af3 Ve7 4.Ff4 Vb4+ 5.Fd2 Vxb2. Siyah vezir a1 kalesine bakıyor.

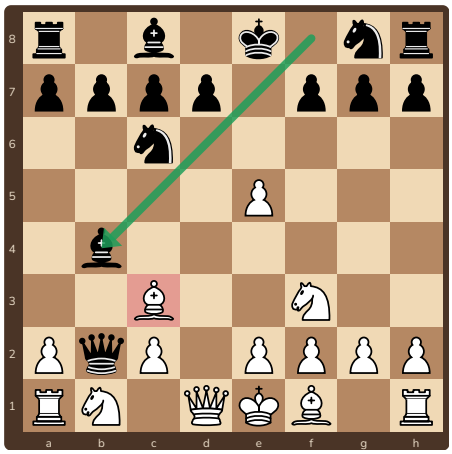

2. 6.Fc3? **Fb4!** ile vezir ve kale de tehlikede; siyah oyunu kazanç yönüne taşıdı.



3. 7.Vd2? **7...Fxc3** 8.Vxc3. Sonrası alıştırma 3'te.

Doğru cevap

5...Vxb2 sonrası beyaz **6.Ac3!** ile oynamalıdır (Stockfish beyaz lehine). 6.Fc3? ise siyaha üstünlük verir.

Hatırla

Rakip bir piyon feda ettiyse **nedenini** sor: hangi taşa saldırıyor, hangi çizgiyi açıyor?

Ücretsiz paylaşılabilir, satılamaz · CC BY-NC 4.0

6 Alıştırmalar

1 ✏️ **Dene!** • Siyah oynar



Kısa mat tuzağı: 1.f3 e5 2.g4. Siyah ne oynamalı?

2 ✏️ **Dene!** • Siyah oynar

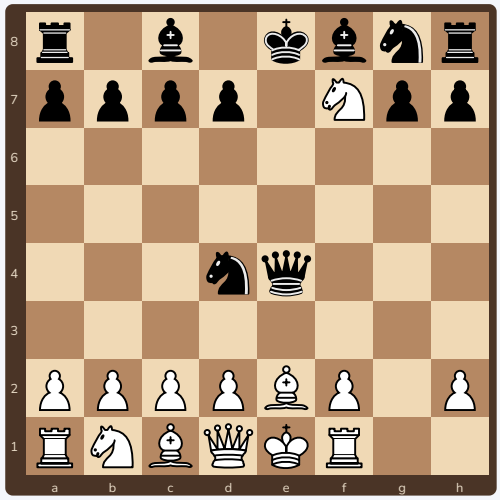

Blackburne tuzağının sonu. Siyah hangi hamleyle mat eder?

3 ✏️ **Dene!** • Siyah oynar



Englund tuzağının sonu. Siyah mat için hangi hamleyi oynar?

4 ✏️ **Dene!** • Siyah oynar



Lasker tuzağı: şah e2'de. Siyah f2'deki piyonla ne yapar?

Ücretsiz paylaşılabilir, satılamaz · CC BY-NC 4.0

7 Cevaplar

1. **2...Vh4#** Beyaz f3 ve g4 piyonlarıyla şahının önünü açtı. Vezir h4'ten e1 şahına şah çekip mat eder (Kısa mat, “Aptal matı”).
2. **7...Af3#** Siyah at f3'e gelir; e1 şahı hiçbir kareye kaçamaz ve at alınamaz. Mat.
3. **8...Vc1#** Siyah vezir c1'e gelir. Beyaz şahının kaçacak karesi ve onu savunan taş kalmadı. Mat.
4. **7...fxg1=A+** Piyon g1'de **ata yükselir** ve şaha şah çeker; at e2'deki şaha da saldırır. Beyaz kalesiyle atı alsa da siyah büyük bir üstünlük kazanır.

Bütün konumlar ve cevaplar Stockfish satranç motoruyla kontrol edildi. Bu tuzaklar **rakip hata yaparsa** çalışır. Sağlam hamleler oynayan rakibe karşı asıl iş açılış ilkeleridir.

Ücretsiz paylaşılabilir, satılamaz · CC BY-NC 4.0

8 Tuzak kartı ve sertifika



Tuzak kartı

1. Bedava taş: **“Alırsam ne olur?”**
2. Şahıma bak: f2/f7 ve şah çekmeler
3. Rakip piyon feda ettiyse **nedenini** bul

Hata hangi hamle? Eşleştir

Tuzak	Beyazın hatası
Blackburne	.....
Lasker	.....
Englund	.....

Cevap: Blackburne 5.Axf7? (sağlam yol 4.Axd4), Lasker 6.Fxb4? (doğrusu 6.fxe3), Englund 6.Fc3? (doğrusu 6.Ac3).

İlerleme tablosu: tahtada 3 kez başar

Teknik	1	2	3
Blackburne tuzağını ve doğru cevabı oynadım	☐	☐	☐
Lasker tuzağını ve doğru cevabı oynadım	☐	☐	☐
Englund tuzağını ve doğru cevabı oynadım	☐	☐	☐
Hamleden önce “alırsam ne olur?” diye sordum	☐	☐	☐



Tuzak Bozan

İlerleme tablosunun bütün kutularını işaretleyen ..... bu sertifikayı kazandı.
Tarih: .....

Ücretsiz paylaşılabilir, satılamaz · CC BY-NC 4.0