SEVİYE 5

Filin Taktikleri

Uzun çaprazı kullan



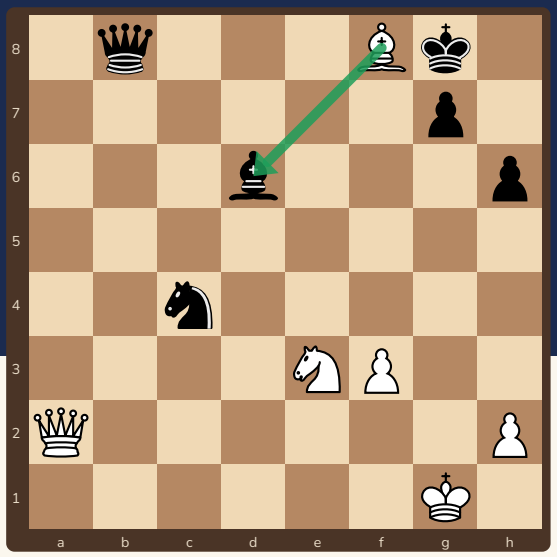

Fil çapraz gider; hat boşsa uzaktan vurur!

Bu kitapçıkta

s.2 Filin gücü
s.3 Örnek 1: Fil taş alıyor
s.4 Örnek 2: Fil taş alıyor
s.5 Örnek 3: Fil taş alıyor
s.6 Alıştırmalar
s.7 Cevaplar
s.8 Fil kartı ve sertifika

Sevgili veli,

Bu kitapçık filin taktik gücünü (uzun çapraz, şahla birlikte saldırı, bağlama ve şiş) gösterir. Konumu tahtada kurun ve çocuğunuza **“Filim çaprazda neye bakıyor? Hat boş mu?”** diye sordurun.

Kitapçık Satranç Velisi için özgün olarak hazırlandı. Bütün konumlar ve cevaplar Stockfish satranç motoruyla kontrol edildi. Ücretsiz basıp paylaşabilirsiniz; satılamaz.

2 Filin gücü



Fil **çapraz** gider ve hat boşsa çok uzağa vurur. Hem bağlar hem şiş yapar!

1 Çaprazı say

Fil kendi renginde kalır. Çaprazdaki kareleri tek tek say; **araya taş** girerse durur.

2 Uzun çapraz

Boş çaprazlarda fil **uzaktan** saldırır. Rakibin köşedeki taşlarına dikkat.

3 İkili çalış

Fil tek başına çoğu zaman yetmez; **vezir ya da kale** ile birlikte çatal ve bağlama yapar.

Fil ne yapar?

Motif	Ne olur?
Bağlar	Önünde ucuz, arkasında değerli taş.
Şiş yapar	Önde değerli, arkada başka taş.
Çatal yapar	İki hedefe aynı çaprazda ya da farklı çaprazlarda.

Fil tek renkli karelerde kalır; rakibin taşı aynı renkte değilse fil ona asla saldıramaz.

Ücretsiz paylaşılabilir, satılamaz · CC BY-NC 4.0

3 Örnek 1: Fil taş alıyor



Önce konuma bak: şahlar, korumasız taşlar, tehditler. Sonra hamleni seç.

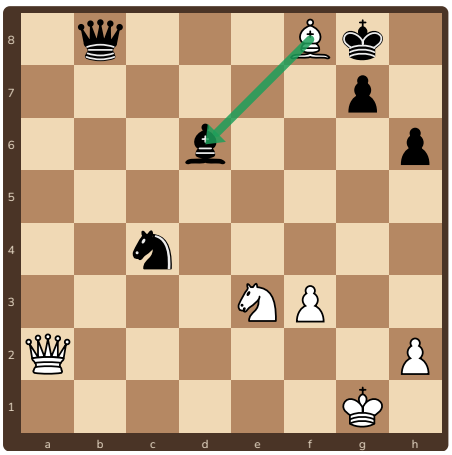

1. Beyaz oynar: **1.Fxd6!** Fil alıyor.

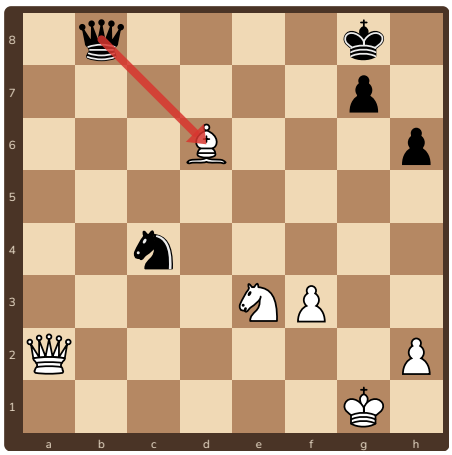

2. Siyah'ın en iyi cevabı: **1...Vxd6**

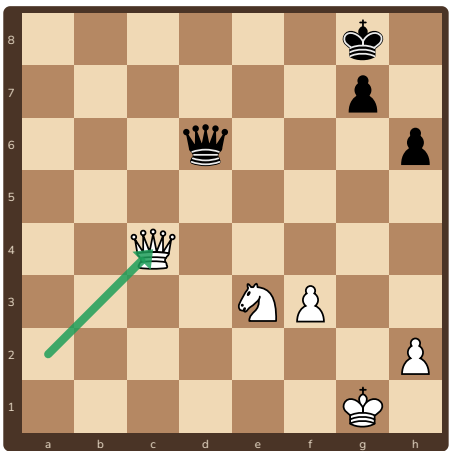

3. **2.Vxc4+** At alıyor ve şah çekiyor. Sonuç: Beyaz yaklaşık **3 puan** kazanır.

Neden çalıştı?

Fil hamlesi beyaza güvenle kazandırdı. Rakibin en iyi cevabını da oynadık ve sonunda puanı saydık.

Hatırla

Fil çaprazı **kare kare say**; araya taş var mı?

Ücretsiz paylaşılabilir, satılamaz · CC BY-NC 4.0

4 Örnek 2: Fil taş alıyor



Rakibin cevabını da düşün. Her hamleden sonra yeni bir konum çıkar!

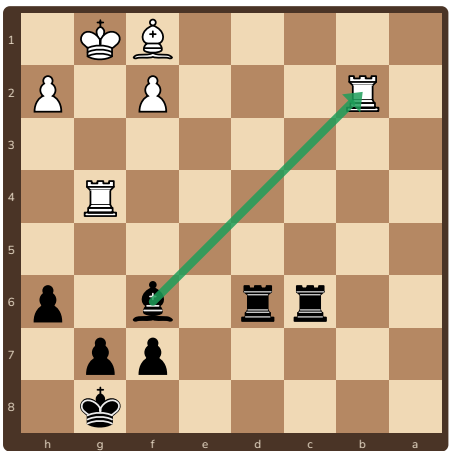

1. Siyah oynar: **1...Fxb2!** Kale alıyor.

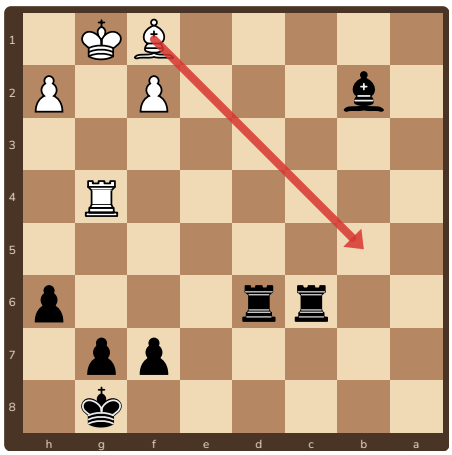

2. Beyaz'ın en iyi cevabı: **2.Fb5**

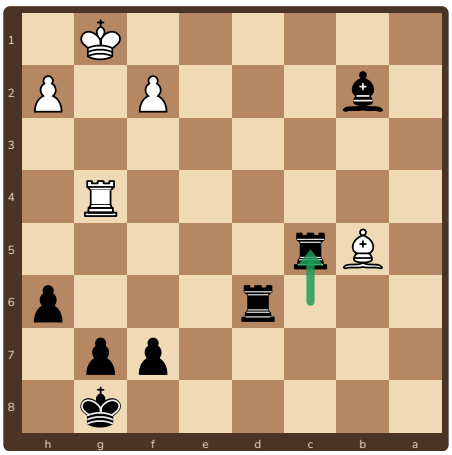

3. **2...Kc5** Sessiz ama güçlü bir hamle. Sonuç: Siyah yaklaşık **5 puan** kazanır.

Nasıl sayarız?

Aldığımız taşların puanını toplar, verdiklerimizi çıkarırız. Sonuç artıdaysa hamle iyidir (piyon 1, at ve fil 3, kale 5, vezir 9).

Hatırla

Hamleden önce **rakibin cevabını** da oyna; sonra puanı say.

Ücretsiz paylaşılabilir, satılamaz · CC BY-NC 4.0

5 Örnek 3: Fil taş alıyor



Hamleden sonra puanı say: ne kazandık, ne verdik?

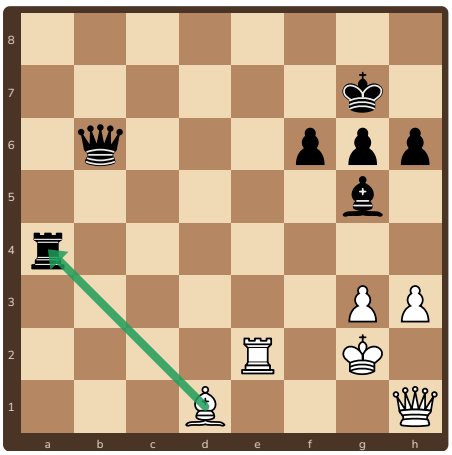

1. Beyaz oynar: **1.Fxa4!** Kale alıyor.

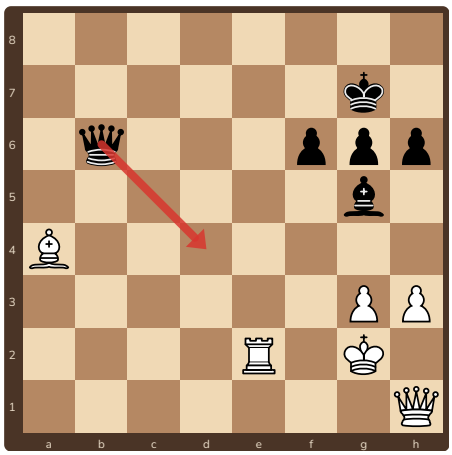

2. Siyah'ın en iyi cevabı: **1...Vd4**

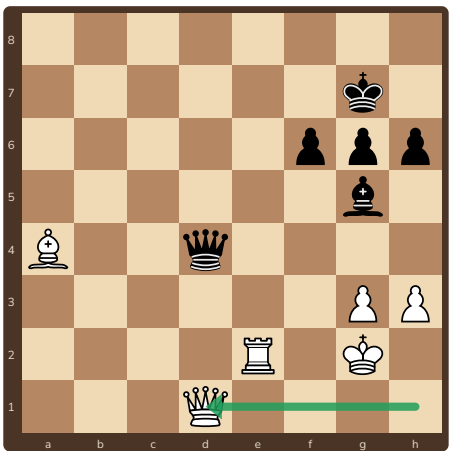

3. **2.Vd1** Sessiz ama güçlü bir hamle.
Sonuç: Beyaz yaklaşık **5 puan** kazanır.

Rakibin cevabı

Rakibin en iyi cevabını oynamadan sonucu bilemeyiz. Her hamleden sonra "karşı taraf ne yapar?" diye sor.

Hatırla

Aynı konuya iki kez bak: **önce tehditler, sonra hamlen**.

Ücretsiz paylaşılabilir, satılamaz · CC BY-NC 4.0

6 Alıştırmalar

1 ✏️ **Dene!** ○ Beyaz oynar

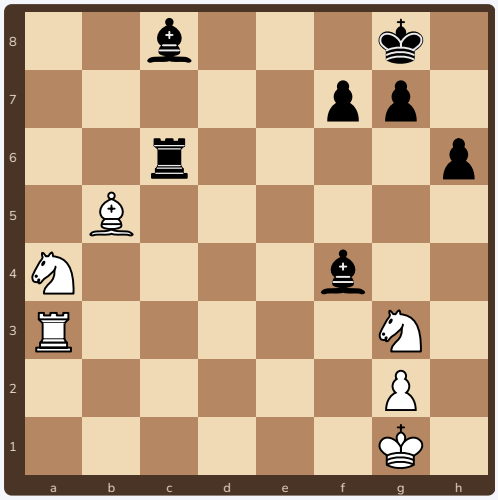

Beyaz oynar. İpucu: filin çaprazı boş mu? O çaprazın sonunda ne var? Rakibin cevabını da yaz.

2 ✏️ **Dene!** ○ Beyaz oynar



Beyaz oynar. İpucu: filin çaprazı boş mu? O çaprazın sonunda ne var? Rakibin cevabını da yaz.

3 ✏️ **Dene!** ● Siyah oynar



Siyah oynar. İpucu: filin çaprazı boş mu? O çaprazın sonunda ne var? Rakibin cevabını da yaz.

4 ✏️ **Dene!** ○ Beyaz oynar



Beyaz oynar. İpucu: filin çaprazı boş mu? O çaprazın sonunda ne var? Rakibin cevabını da yaz.

Ücretsiz paylaşılabilir, satılamaz · CC BY-NC 4.0

7 Cevaplar

1. **1.Fxc6!** Kale alıyor. Devam: **1...Fe5 2.Ae2 Fe6 3.Fb5**. Sonuç: Beyaz yaklaşık **5 puan** kazanır.
2. **1.Fxc4!** Fil alıyor. Devam: **1...Fxg1 2.Fxf7+ Şxf7 3.Şxg1**. Sonuç: Beyaz yaklaşık **3 puan** kazanır.
3. **1...Fxe2!** Fil alıyor. Devam: **2.Ae5 Af6 3.a4 h5**. Sonuç: Siyah yaklaşık **3 puan** kazanır.
4. **1.Fxd7!** Kale alıyor. Devam: **1...h5 2.Fxc8 gxf5 3.g3**. Sonuç: Beyaz yaklaşık **5 puan** kazanır.

Bütün konumlar ve cevaplar Stockfish satranç motoruyla kontrol edildi. Her konumu tahtada kurup **rakibin cevabını** da oynayın; filin hangi çaprazdan saldırdığını görün. Puanlar: piyon 1, at ve fil 3, kale 5, vezir 9.

Ücretsiz paylaşılabilir, satılamaz · CC BY-NC 4.0

8 Fil kartı ve sertifika



Fil kartı

1. Filim **hangi çaprazlara** bakıyor?
2. O çaprazda **iki taş** aynı hatta mı?
3. Hat **boş** mu?

Hangi hamleyi buldum?

Alıştırma	İlk hamlem
1	.....
2	.....
3	.....
4	.....

Cevap: 1 Fxc6, 2 Fxc4, 3 Fxe2, 4 Fxd7

İlerleme tablosu: tahtada 3 kez başar

Teknik	1	2	3
Filin çaprazını saydım	☐	☐	☐
Fil çatalı yaptım	☐	☐	☐
Filin şişini ya da bağlamasını yaptım	☐	☐	☐
Rakibin cevabını oynayıp sonucu saydım	☐	☐	☐



Fil Ustası

İlerleme tablosunun bütün kutularını işaretleyen ..... bu sertifikayı kazandı.
Tarih: .....

Ücretsiz paylaşılabilir, satılamaz · CC BY-NC 4.0