SEVİYE 5

Üç Hamlelik Kombinasyonlar

Bir şey ver, zorla, kazan



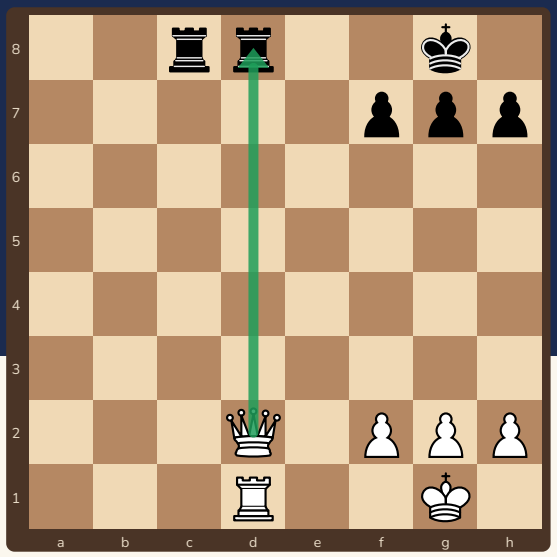

Kombinasyon, bir şey verip daha fazlasını almaktır. Üç hamleyi birlikte düşün!

Bu kitapçıkta

s.2 Kombinasyon nedir?
s.3 Verip alma
s.4 Üç hamlede mat
s.5 Zorla ve bitir
s.6 Alıştırmalar
s.7 Cevaplar
s.8 Kombinasyon kartı ve sertifika

Sevgili veli,

Kombinasyon, kasten bir şey verip (fedakârlık) zorlayıcı hamlelerle daha fazlasını kazanmaktır. Konumu tahtada kurun ve çocuğunuza **“Hangi taşı vererek rakibi zorlayabilirim?”** diye sordurun. Üç hamleyi de oynayıp sonunu sayın.

Kitapçık Satranç Velisi için özgün olarak hazırlandı. Bütün konumlar ve cevaplar Stockfish satranç motoruyla kontrol edildi. Ücretsiz basıp paylaşabilirsiniz; satılamaz.

2 Kombinasyon nedir?



Kombinasyon, **zorlayıcı hamleler** zinciridir: bir şey verirsin, rakip mecbur cevap verir, sen daha fazlasını kazanırsın!

1 Bir şey ver

Çoğu kombinasyon bir **fedakârlıkla** başlar: bir taşı kasten rakibe verirsin.

2 Rakibi zorla

Her hamle rakibe **seçenek bırakmamalı** (şah, alış, mat tehdidi).

3 Sonucu say

Üç hamle sonra ne kazandın? Mat mı, bir taş mı? Verdiğinden fazlasını almalısın.

Kombinasyon sorusu

Adım	Soru
1. hamle	Ne veriyorum?
2. hamle	Rakip nasıl cevap vermek zorunda?
3. hamle	Ne kazanıyorum?

Kombinasyonu seçmeden önce rakibin başka cevabı olup olmadığını mutlaka kontrol edin.

Ücretsiz paylaşılabilir, satılamaz · CC BY-NC 4.0

3 Verip alma



Bir şey vereceğiz ama rakibin elini kolunu bağlayacağız!

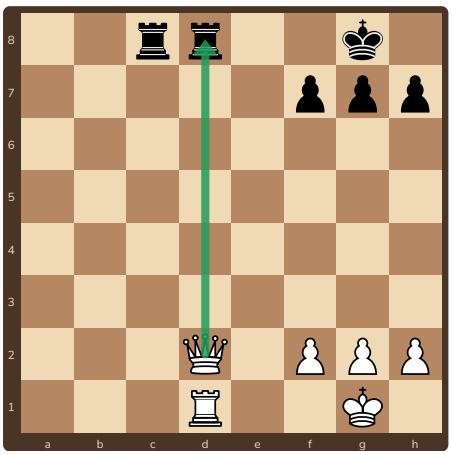

1. Beyaz oynar: **1.Vxd8+!** Kale alıyor ve şah çekiyor.

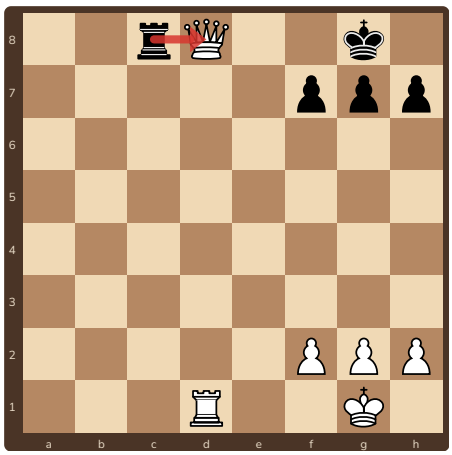

2. Siyah şahı kurtarmalı: **1...Kxd8**

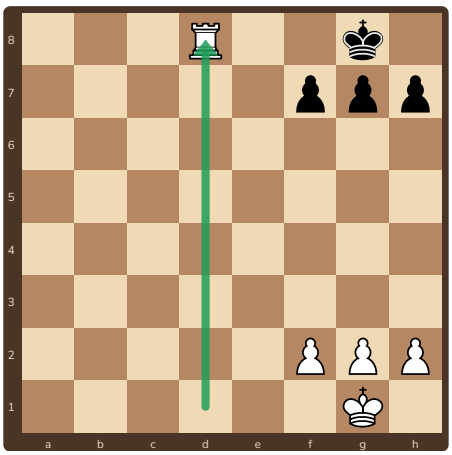

3. **2.Kxd8#** Mat! Beyaz 2 hamlede mat eder.

Neden çalıştı?

Verdiğimiz taşı almak rakibi zorunlu bir cevaba götürdü; arkasından kazanç geldi.

Hatırla

Kombinasyonda **her hamle zorlayıcı** olmalı. Rakibe nefes aldırma.

Ücretsiz paylaşılabilir, satılamaz · CC BY-NC 4.0

4 Üç hamlede mat



Fedakârlık yine rakibi zorluyor. Sonu mat!

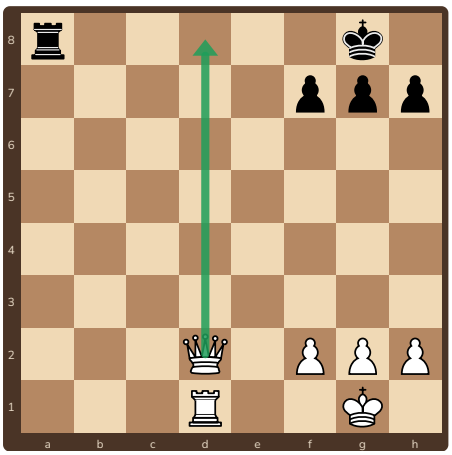

1. Beyaz oynar: **1.Vd8+!** Şah çekiyor.

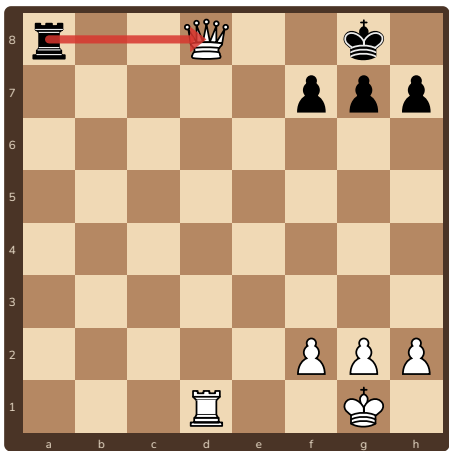

2. Siyah şahı kurtarmalı: **1...Kxd8**

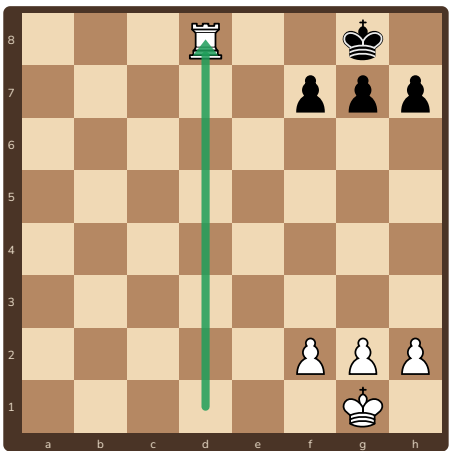

3. **2.Kxd8#** Mat! Beyaz 2 hamlede mat eder.

Neden çalıştı?

Rakibin cevabı mecburi olduğu için bir sonraki hamleyi önceden bilebildik.

Hatırla

Matı görünce **fedakârlığı** hesapla: sonunda mat varsa verdiğin taş önemsizdir.

Ücretsiz paylaşılabilir, satılamaz · CC BY-NC 4.0

5 Zorla ve bitir



Her cevap zorunlu: rakibin başka seçeneği yok!

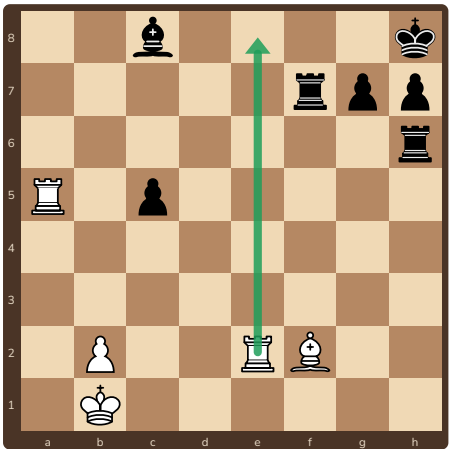

1. Beyaz oynar: **1.Ke8+!** Şah çekiyor.



2. Siyah şahı kurtarmalı: **1...Kf8**



3. **2.Kxf8#** Mat! Beyaz 2 hamlede mat eder.

Neden çalıştı?

Şah çekince rakibin tek bir hamlesi vardı. Ardından mat geldi.

Hatırla

Matı **zorlayıcı hamlelerle** kur: her hamle rakibe tek seçenek bırakın.

Ücretsiz paylaşılabilir, satılamaz · CC BY-NC 4.0

6 Alıştırmalar

1 ✏️ **Dene!** ○ Beyaz oynar

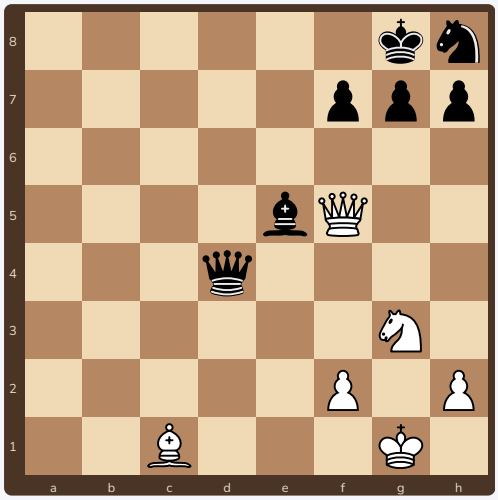

Beyaz oynar. İpucu: hangi taşı vererek rakibi zorlayabilirsin? Rakibin cevabını da yaz.

2 ✏️ **Dene!** ● Siyah oynar



Siyah oynar. İpucu: hangi taşı vererek rakibi zorlayabilirsin? Rakibin cevabını da yaz.

3 ✏️ **Dene!** ○ Beyaz oynar



Beyaz oynar. İpucu: hangi taşı vererek rakibi zorlayabilirsin? Rakibin cevabını da yaz.

4 ✏️ **Dene!** ○ Beyaz oynar

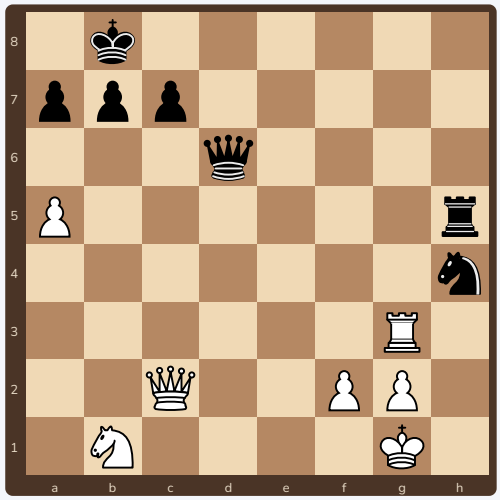

Beyaz oynar. İpucu: hangi taşı vererek rakibi zorlayabilirsin? Rakibin cevabını da yaz.

Ücretsiz paylaşılabilir, satılamaz · CC BY-NC 4.0

7 Cevaplar

1. **1.Vc8+!** Şah çekiyor. Devam: **1...Vd8 2.Vxd8#**. Beyaz 2 hamlede mat eder.
2. **1...Af3+!** Şah çekiyor. Devam: **2.Fh4 Kxh4#**. Siyah 2 hamlede mat eder.
3. **1.Ka8+!** Şah çekiyor. Devam: **1...Kb8 2.Kxb8+ Kf8 3.Kxf8#**. Beyaz 3 hamlede mat eder.
4. **1.Kg8+!** Şah çekiyor. Devam: **1...Vd8 2.Kxd8#**. Beyaz 2 hamlede mat eder.

Bütün konumlar ve cevaplar Stockfish satranç motoruyla kontrol edildi. Her konumu tahtada kurup **rakibin cevabını** da oynayın; verilen taşın neden değerli olduğunu görün. Puanlar: piyon 1, at ve fil 3, kale 5, vezir 9.

Ücretsiz paylaşılabilir, satılamaz · CC BY-NC 4.0

8 Kombinasyon kartı ve sertifika



Kombinasyon kartı

1. Ne **veriyorum**?
2. Rakip **zorunlu** olarak ne yapar?
3. Üç hamle sonra **ne kazanıyorum**?

Hangi hamleyi buldum?

Alıştırma	İlk hamlem
1	.....
2	.....
3	.....
4	.....

Cevap: 1 Vc8+, 2 Af3+, 3 Ka8+, 4 Kg8+

İlerleme tablosu: tahtada 3 kez başar

Teknik	1	2	3
Verilen taşı buldum	☐	☐	☐
Rakibin zorunlu cevabını buldum	☐	☐	☐
Üç hamleyi tahtada oynadım	☐	☐	☐
Rakibin başka cevabı var mı diye baktım	☐	☐	☐



Kombinasyon Ustası

İlerleme tablosunun bütün kutularını işaretleyen ..... bu sertifikayı kazandı.
Tarih: .....

Ücretsiz paylaşılabilir, satılamaz · CC BY-NC 4.0